Name:_____ Datum:_____

# Umfang und Fläche zusammengesetzter Kreisflächen

Welche Flächen muss ich addiern bzw. subtrahieren? → Formeln anpassen für Halb- oder Viertelkreise → Werte in die Formel einsetzen → Ergebnisse mit QR-Code checken

**Link zum Hilfsvideo**

**QR-Code für Hilfsvideo**

**Link zum Ergebnischeck**

**QR-Ergebnischeck**

Berechne die Fläche und den Umfang dieser Figuren! Rechne mit π = 3,14

a) A= u=

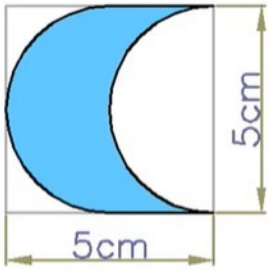


b) A= u=

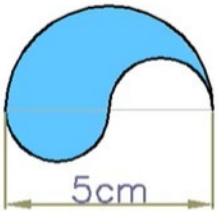


c) A= u=

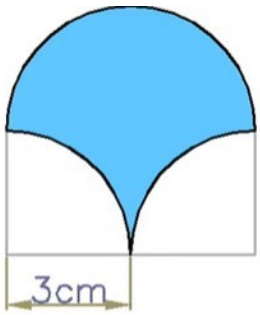


d) A= u=

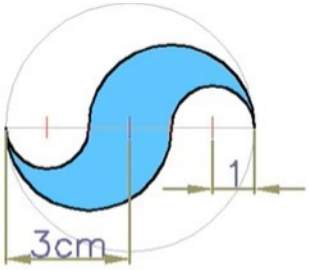

MITTELSCHULE Landau a. d. Isar

Name:_____ Datum:_____